ІІІ етап Всеукраїнської учнівської олімпіади з історії
(Львів, 28–29 січня 2017 р.)

ЗАВДАННЯ ДЛЯ УЧНІВ 11 КЛАСУ (максимально – 75 балів)

1. Використовуючи приклади з історії XVIII–XIX ст., розкрийте особливості та наслідки політики Габсбурґів, що базувалася на принципі "*Нехай воюють інші, а ти, щаслива Австріє, одружуйся!*"**:** *(0–10 балів)*

2. Американський історик Гіроакі Куромія у своєму дослідженні "Свобода і терор у Донбасі: Українсько-російське прикордоння, 1870–1990-ті роки" (2002) зауважував: "*Упродовж усієї своєї історії Донбас був політично некерованим. Сили політичних метрополій, які намагалися заволодіти серцями й думками Донбасу, щоразу зазнавали поразок. Найвиразніше це виявилося під час кризових періодів – революції і громадянської війни, в роки Другої світової війни…*". **Які, на Ваш погляд, історичні події зумовили таку суперечливу політичну атмосферу в регіоні:** *(0–10 балів)*

3. У своєму "Щоденнику" за 26 жовтня 1943 р. Олександр Довженко занотував: "*Сьогодні ж узнав… тяжку новину: моя повість "Україна в огні" не вподобалася Сталіну, і він її заборонив для друку і для постановки... Тяжко на душі... І не тому тяжко, що пропало марно більше року роботи…Мені важко од свідомості, що "Україна в огні" – це правда. Прикрита і замкнена моя правда про народ і його лихо. Значить, нікому, отже, вона не потрібна і ніщо, видно, не потрібно, крім панегірика*". **Зазначте основні критерії, яким повинні були відповідати художні твори у Радянському Союзі сталінської доби**: *(0–10 балів)*

****

4. Визначте, яка з книг "Історії" Геродота є джерелом до історії Північного Причорномор'я й Скіфії зокрема: *(0–2 бали)*

А) Перша книга "Кліо"; Б) Друга книга "Евтерпа"; В) Третя книга "Талія"; Г) Четверта книга "Мельпомена"; Д) П'ята книга "Терпсіхора".

5. Поясніть значення виразу грецької міфології "*Танталові муки*": *(0–3 бали)*

6. Назвіть київського князя, котрого автор "Повісті минулих літ" назвав "*новим Костянтином великого Риму***":** *(0–2 бали)*

7. Заповніть пропуски в історичному тексті: "Початковий етап створення відокремленого князівства в Галицькій землі відомий тільки в загальних рисах. А) [*вкажіть рік*] **з'явилися тут три князі – Рюрик,** Б) [*вкажіть ім'я князя*] **і Василько Ростиславичі – і в їх руках опинилися головні міста краю – Перемишль, Звенигород і** В) [*вкажіть місто*]**":** (*0–3 бали*)

А)_____ Б)_____ В)_____

8. Заповніть таблицю *"Вищі станово-представницькі органи європейських країн епохи Середньовіччя":* (*0–3 бали*)

Країна	*Термін, який вживається на означення станово-представницького органу у цій країні*
Англія	
Франція	
Німеччина	
Іспанія (Кастилія)	
Швеція	
Польща	

9. Визначте, про кого йдеться в історичній довідці: *"Першим з литовських князів посів київський стіл, отримавши його від свого батька. У документах іменував себе "З божої ласки князь Київський". Карбував монети із зображенням татарської тамги ("знамення") та княжого знаку. Після укладення Островської угоди зайшов у конфлікт з Вітовтом Кейстутовичем, у результаті чого 1394 р. втратив контроль над Київською землею"*: (*0–2 бали*)

А) Володимир Ольгердович; Б) Федір Корибутович; В) Свидригайло Ольгердович; Г) Семен Олелькович; Д) Сигізмунд Корибутович.

10. У кожному конкретному випадку одним коротким реченням поясніть, який стосунок до вшанування пам'яті гетьмана Богдана Хмельницького мають нижче наведені поняття (дата, власні імена): (*0–3 бали*)

А) "10 жовтня 1943 р." – _____

Б) "Проскурів" – _____

В) “Іван Крип’якевич” – _____

11. Визначте одну зайву позицію, що не відповідає логіці запропонованого ряду. Поясніть свій вибір: “А) Іван Брюховецький; Б) Іван Сірко; В) Кость Гордієнко; Г) Іван Самойлович; Д) Петро Калнишевський”: *(0–2 бали)*

12. Визначте, у складі яких факультетів діяв заснований 1784 р. австрійською владою у Львові університет: *(0–2 бали)*

А) філософського, історичного, філологічного і журналістики;
Б) фізичного, математичного, медичного і хімічного;
В) мистецького, педагогічного, історичного і архітектурного;
Г) філософського, філологічного, юридичного і природознавчого;
Д) філософського, юридичного, медичного і теологічного.

13. Персоніфікуйте зображених на фото діячів української культури XIX – поч. XX ст.: *(0–4 бали)*

А

Б



В

Г



А)_____Б)_____
В)_____Г)_____

14. Уважно прочитайте уривок з відозви Української Національної Ради від 1 листопада 1918 р. <u>і виправте три</u> свідомо допущені помилки <u>фактографічного характеру</u>: “*Український Народе! Голосимо тобі вість про Твоє визволення з віковічної неволі. Від нині Ти господар своєї землі, вільний горожанин Української Держави. Дня 1 падолиста твоєю волею утворилася на українських землях бувшої австро-угорської монархії Українська Держава і її найвисша власть, Державний Сойм. З нинішнім днем Українська Національна Рада обняла власть в столичнім місті Києві і на цілій території Української Держави*”: *(0–3 бали)*

1)_____ 2)_____ 3)_____

15. Назвіть британського прем’єр-міністра, котрий ініціював проведення парламентської реформи 1832 р.: *(0–2 бали)*

А) лорд Чарльз Ґрей; Б) Бенджамін Дізраелі; В) Вільям Ґладстон; Г) Спенсер Персіваль; Д) Роберт Солсбері.

16. Розташуйте зображені мобілізаційні плакати у послідовності їх створення, вказавши країну походження: *(0–4 бали)*

А

Б

В

Г

А)_____ Б)_____ В)_____ Г)_____

17. Подайте визначення терміну “*сокальський кордон*”: *(0–4 балів)*

_____
_____
_____
_____
_____
_____
_____

18. Вкажіть українське державне утворення XX ст., герб якого зображено на малюнку: *(0–2 бали)*



А) Української Народної Республіки; Б) Західноукраїнської Народної Республіки; В) Української Держави; Г) Кубанської Народної Республіки; Д) Карпатської України.

19. Встановіть відповідність між країнами і поняттями, які стосуються їхньої історії першої половини XX ст.: *(0–2 бали)*

А) Італія;	1. “П’ята колона”;
Б) Німеччина;	2. “Ревучі двадцяті”;
В) США;	3. “Революція гвоздик”;
Г) Іспанія.	4. “Кришталева ніч”;
	5. “Червоне дворіччя”.

20. Визначте політичну партію, представником якої був багатолітній прем’єр-міністр Канади Вільям Маккензі Кінґ (1921–1930; 1935–1948): *(0–2 бали)*

А) Консервативна; Б) Прогресивно-лейбористська; В) Ліберальна; Г) Партія національної єдності; Д) Соціалістична.